Usa las formas proporcionadas para resolver las preguntas.

Ej) ¿Cuántos grupos de 6 se pueden hacer con las 18 formas de abajo?

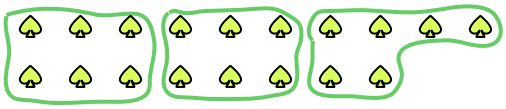

1) ¿Cuántos grupos de 3 se pueden hacer con las 9 formas de abajo?

2) ¿Cuántos grupos de 6 se pueden hacer con las 18 formas de abajo?

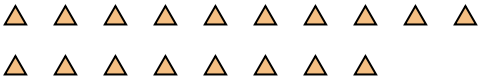

3) ¿Cuántos grupos de 8 se pueden hacer con las 16 formas de abajo?

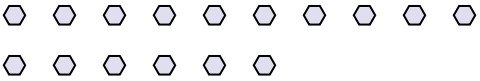

4) ¿Cuántos grupos de 4 se pueden hacer con las 8 formas de abajo?

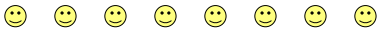

5) ¿Cuántos grupos de 8 se pueden hacer con las 16 formas de abajo?

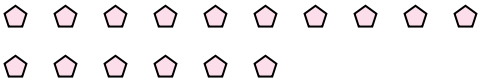

6) ¿Cuántos grupos de 2 se pueden hacer con las 24 formas de abajo?

7) ¿Cuántos grupos de 2 se pueden hacer con las 18 formas de abajo?

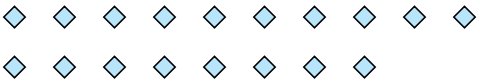

8) ¿Cuántos grupos de 9 se pueden hacer con las 27 formas de abajo?



9) ¿Cuántos grupos de 9 se pueden hacer con las 36 formas de abajo?

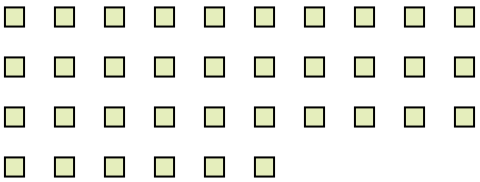

10) ¿Cuántos grupos de 6 se pueden hacer con las 30 formas de abajo?

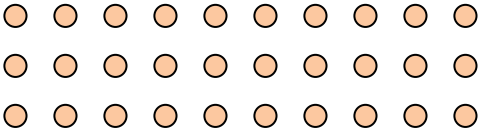

11) ¿Cuántos grupos de 3 se pueden hacer con las 39 formas de abajo?

Respuestas

Ej. 3

1. _____
2. _____
3. _____
4. _____
5. _____
6. _____
7. _____
8. _____
9. _____
10. _____
11. _____

1-10	91	82	73	64	55	45	36	27	18	9
11	0									

Usa las formas proporcionadas para resolver las preguntas.

Ej) ¿Cuántos grupos de 6 se pueden hacer con las 18 formas de abajo?

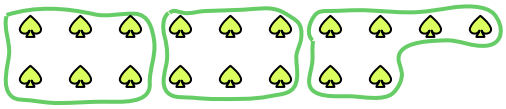

1) ¿Cuántos grupos de 3 se pueden hacer con las 9 formas de abajo?

2) ¿Cuántos grupos de 6 se pueden hacer con las 18 formas de abajo?

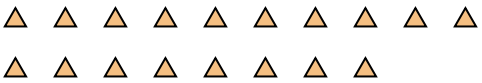

3) ¿Cuántos grupos de 8 se pueden hacer con las 16 formas de abajo?

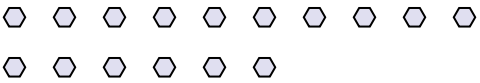

4) ¿Cuántos grupos de 4 se pueden hacer con las 8 formas de abajo?

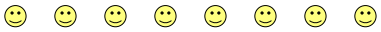

5) ¿Cuántos grupos de 8 se pueden hacer con las 16 formas de abajo?

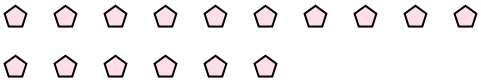

6) ¿Cuántos grupos de 2 se pueden hacer con las 24 formas de abajo?

7) ¿Cuántos grupos de 2 se pueden hacer con las 18 formas de abajo?

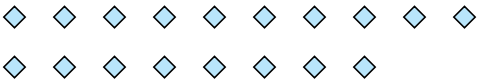

8) ¿Cuántos grupos de 9 se pueden hacer con las 27 formas de abajo?



9) ¿Cuántos grupos de 9 se pueden hacer con las 36 formas de abajo?

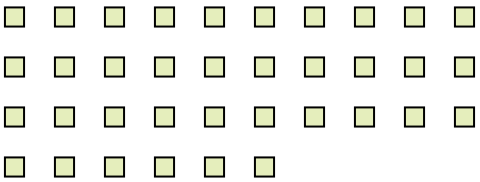

10) ¿Cuántos grupos de 6 se pueden hacer con las 30 formas de abajo?

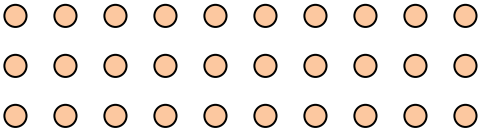

11) ¿Cuántos grupos de 3 se pueden hacer con las 39 formas de abajo?

Respuestas

Ej.	3
1.	3
2.	3
3.	2
4.	2
5.	2
6.	12
7.	9
8.	3
9.	4
10.	5
11.	13

1-10	91	82	73	64	55	45	36	27	18	9
11	0									