# Encontrando razones (Visual)

Nombre:

**Resuelve cada problema.**

**Ej)** ¿Cuál es la relación de triangulos a estrellas?

**1)** ¿Cuál es la relación de circulos a triangulos?

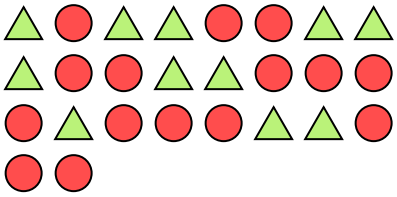

**2)** ¿Cuál es la relación de pentagonos a moons?

**3)** ¿Cuál es la relación de cuadros a pentagonos?

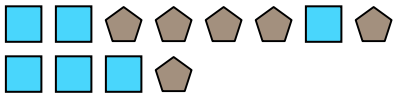

**4)** ¿Cuál es la relación de moons a hearts?



**5)** ¿Cuál es la relación de circulos a pentagonos?

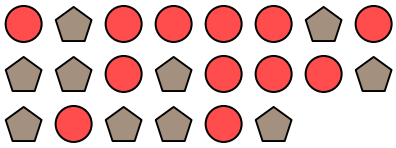

**6)** ¿Cuál es la relación de triangulos a estrellas?

**7)** ¿Cuál es la relación de hearts a circulos?



**8)** ¿Cuál es la relación de hearts a circulos?



**9)** ¿Cuál es la relación de hearts a circulos?



**10)** ¿Cuál es la relación de cuadros a moons?



**11)** ¿Cuál es la relación de triangulos a pentagonos?

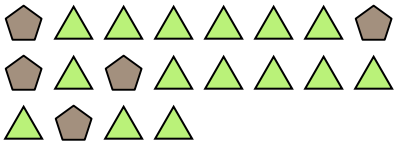

## Respuestas

Ej. 3:9

1. _____
2. _____
3. _____
4. _____
5. _____
6. _____
7. _____
8. _____
9. _____
10. _____
11. _____



| | | | | | | | | | | |
|---|---|---|---|---|---|---|---|---|---|---|
| 1-10 | 91 | 82 | 73 | 64 | 55 | 45 | 36 | 27 | 18 | 9 |
| 11 | 0 | | | | | | | | | |

Nombre: **Clave De Respuestas**

**Resuelve cada problema.**

**Ej)** ¿Cuál es la relación de triangulos a estrellas?

**1)** ¿Cuál es la relación de circulos a triangulos?

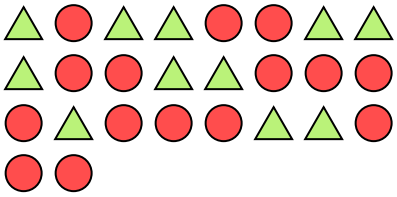

**2)** ¿Cuál es la relación de pentagonos a moons?

**3)** ¿Cuál es la relación de cuadros a pentagonos?

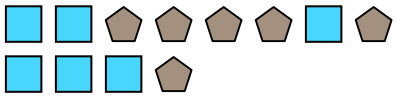

**4)** ¿Cuál es la relación de moons a hearts?



**5)** ¿Cuál es la relación de circulos a pentagonos?

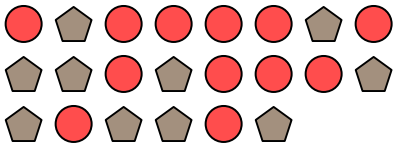

**6)** ¿Cuál es la relación de triangulos a estrellas?

**7)** ¿Cuál es la relación de hearts a circulos?



**8)** ¿Cuál es la relación de hearts a circulos?



**9)** ¿Cuál es la relación de hearts a circulos?



**10)** ¿Cuál es la relación de cuadros a moons?



**11)** ¿Cuál es la relación de triangulos a pentagonos?

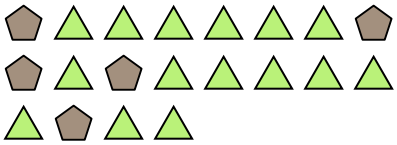

## Respuestas

| | |
|---|---|
| Ej. | 3:9 |
| 1. | 15:11 |
| 2. | 4:11 |
| 3. | 6:6 |
| 4. | 8:14 |
| 5. | 12:10 |
| 6. | 6:4 |
| 7. | 8:11 |
| 8. | 15:8 |
| 9. | 5:9 |
| 10. | 6:13 |
| 11. | 15:5 |



| | | | | | | | | | | |
|---|---|---|---|---|---|---|---|---|---|---|
| 1-10 | 91 | 82 | 73 | 64 | 55 | 45 | 36 | 27 | 18 | 9 |
| 11 | 0 | | | | | | | | | |